13. UNITATEA
Matematika

SA

Izen-abizenak: .....

Maila: ..... **Eguna:** .....

1 Idatzi gorputz geometriko hauen izenak:

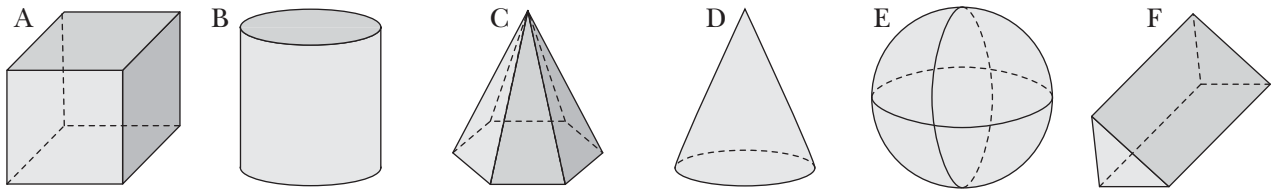

A → .....

B → .....

C → .....

D → .....

E → .....

F → .....

2 Osatu taula.

POLIEDROA	AURPEGIAK	ERPINAK	ERTZAK
PIRAMIDE TRIANGELUARRA			
PRISMA HEXAGONALA			
PIRAMIDE PENTAGONALA			
PRISMA LAUANGELUARRA			
PIRAMIDE HEXAGONALA			

3 Marratu, eskuz, garapen honi dagokion gorputza:

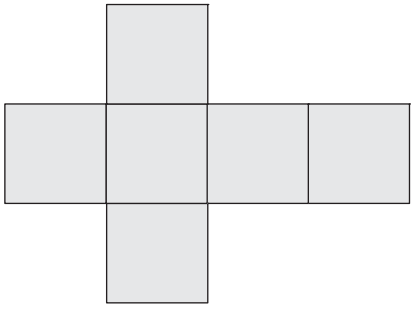

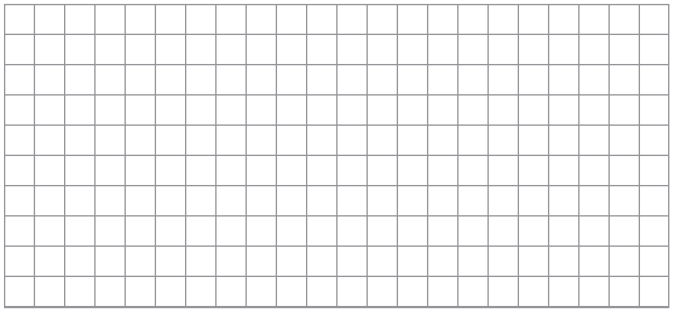

© GRUPO ANAYA, S.A., Matematika 6. Lehen Hezkuntza. Baimena ematen da material hau fotokopiatzeko.

13. UNITATEA
Matematika

SA

Izen-abizenak: .....

Maila: ..... **Eguna:** .....

4 Idatzi konoaren eta zilindroaren elementuen izenak.

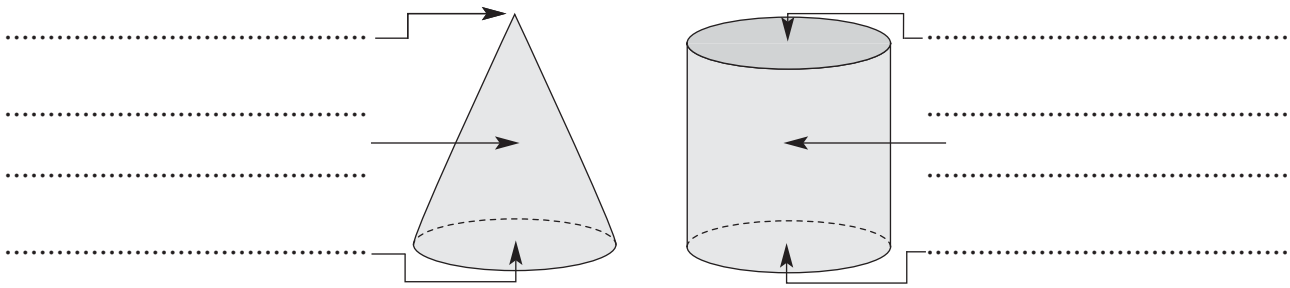

5 Marratu, biratzean, honako irudi hauek sortzen dituzten irudi lauak:

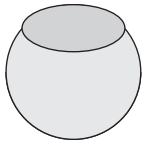

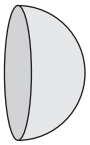

6 Kalkulatu zenbatekoak diren prismen bolumenak:

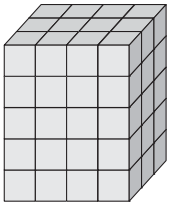

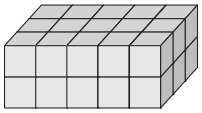

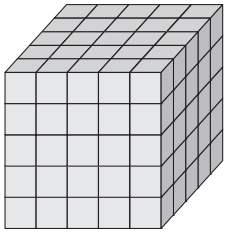

V_A = ... V_B = ... V_C = ...

7 Osatu.

a) 1 m^3 = ... dm^3 c) ..... m^3 = 6 000 dm^3 e) 0,025 m^3 = ... cm^3

b) 1 m^3 = ... *l* d) ..... m^3 = 3 000 *l* f) ..... m^3 = 20 dm^3

8 Igerileku batek 20 metroko luzera, 15 metroko zabalera eta 2 metroko sakonera ditu. Zenbat metro kubiko ur ditu beteta dagoenean?

.....

© GRUPO ANAYA, S.A., Matematika 6. Lehen Hezkuntza. Baimena ematen da material hau fotokopiatzeko.

13. UNITATEA
Matematika

ZA

Izen-abizenak: .....

Maila: ..... **Eguna:** .....

1 Erreparatu objektuei, eta sailkatu poliedroak ala gorputz biribilak diren kontuan hartuta:

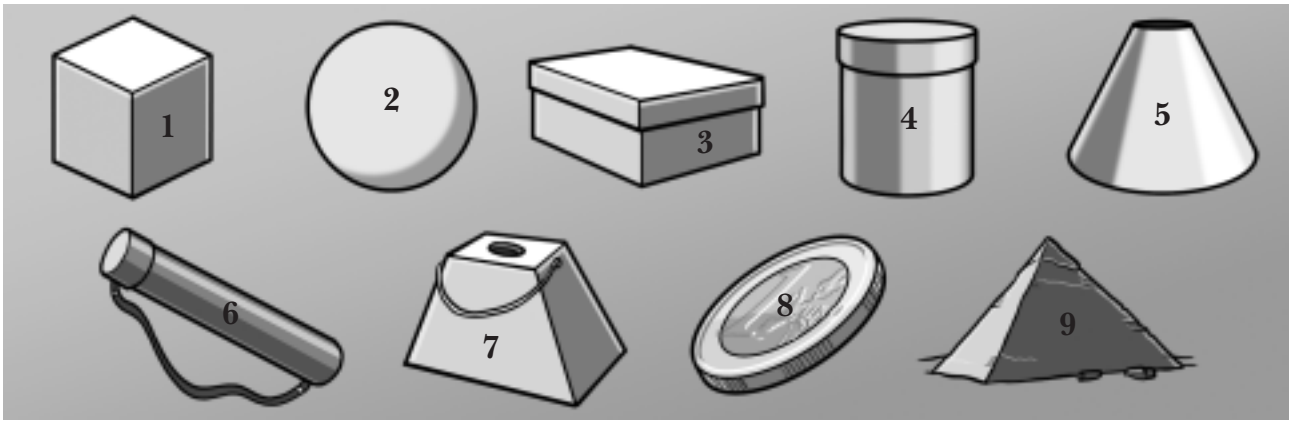

POLIEDROAK	
GORPUTZ BIRIBILAK	

2 Osatu taula.

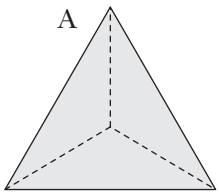

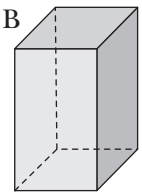

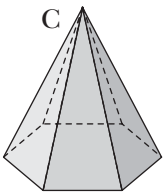

	POLIEDROA	AURPEGIAK	ERPINAK	ERTZAK
A				
B				
C				

3 Osatu.

Tetraedroa → ..... aurpegi → Triangelu aldekideak

Kuboa → 6 aurpegi → .....

..... → 8 aurpegi → Triangelu aldekideak

Dodekaedroa → ..... aurpegi → Pentagono erregularrak

..... → 20 aurpegi → .....

© GRUPO ANAYA, S.A., Matematika 6. Lehen Hezkuntza. Baimena ematen da material hau fotokopiatzeko.

13. UNITATEA
Matematika

ZA

Izen-abizenak: .....

Maila: ..... **Eguna:** .....

4 Osatu.

a) 400 dm^3 = ... m^3

b) ..... m^3 = 1 500 dm^3

c) ..... dm^3 = 600 cm^3

d) 4 500 l = ... m^3

e) 5 000 cm^3 = ... dm^3

f) 0,3 m^3 = ... l

5 Zenbat litro kabitzen dira ontzi hauetan?

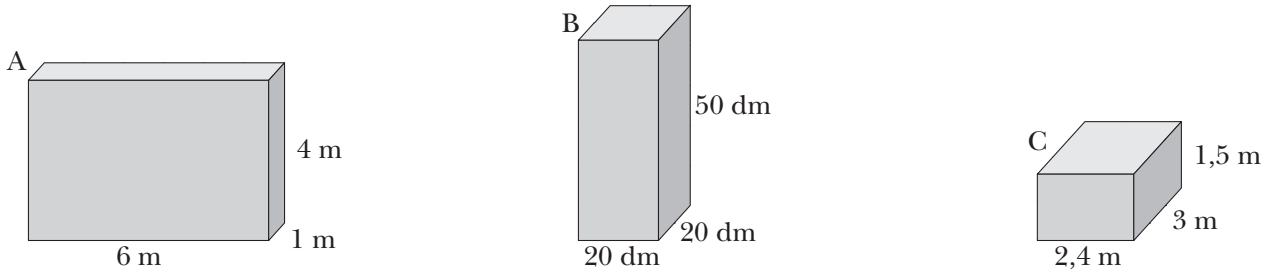

V_A = ...

V_B = ...

V_C = ...

6 Aska batek 4 metroko luzera, 3 metroko zabalera eta 2 metroko sakonera du. Zenbat litro ur kabitzen dira askan?

.....

7 Handizkako batek 4,5 m^3-ko olio-zisterna bat erosi du. Litroa 2,80 €-an badago, zenbat balio du guztira?

.....

© GRUPO ANAYA, S.A., Matematika 6. Lehen Hezkuntza. Baimena ematen da material hau fotokopiatzeko.

13. UNITATEA
Matematika

AGA

Izen-abizenak: .....

Maila: ..... **Eguna:** .....

PENTSAMENDU LOGIKOA

Zein da zein? Jarri argazki bakoitzari dagokion izena.

.....

.....

.....

.....

.....

.....

.....

.....

.....

- Imanolek, Ibanek, Oskarrek eta Erlantzek kapela daramate.
- Alexek, Ibanek, Albertok eta Endikak bibotea dute.
- Ernesto, Alex, Imanol eta Endika miopeak dira.
- Erlantzek, Alexek eta Albertok gorbata daramate.
- Koldori paella gustatzen zaio.

© GRUPO ANAYA, S.A., Matematika 6. Lehen Hezkuntza. Baimena ematen da material hau fotokopiatzeko.

13. UNITATEA
Matematika

AGA

Izen-abizenak: .....

Maila: ..... **Eguna:** .....

ARRETA/PERTZEPZIOA

Zenbat karratu daude irudian?

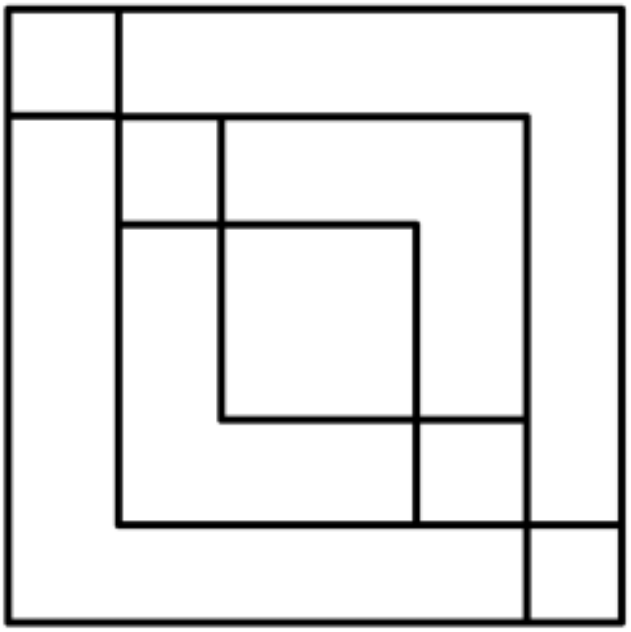

Zenbat triangelu daude?

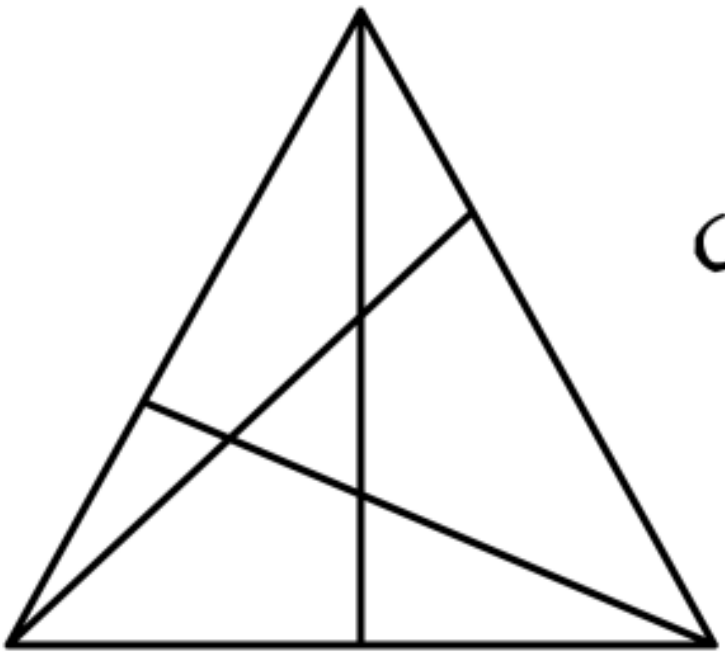

© GRUPO ANAYA, S.A., Matematika 6. Lehen Hezkuntza. Baimena ematen da material hau fotokopiatzeko.